LIST č. 20
Domácí práce z HN 22.3. - 26.3. 2021
1. roč.
ZUŠ Františka Drdly

1. Jak se jmenují následující durové stupnice? Napiš název velkým tiskacím písmenem před notovou osnovu. Tóny pojmenuj.



2. Jak vidíte, stupnice mohou začínat různými tóny (podle nich se jemenují). Pokud stupnice začíná jiným tónem než **c,** bude mít u některých tónů křížky nebo béčka. My se nyní naučíme říkanku, podle které se dá určit kolik křížků budou jednotlivé (durové) stupnice mít.

Gustav - G dur (1 křížek)
Dal - D dur (2 křížky)
Adamovi - A dur (3 křížky)
Elektrické - E dur (4 křížky)
Hodiny - H dur (5 křížků)

V říkance je vždy důležité **první písmenko**. To je vlasně název stupnice. Slova (stupnice) v říkance jdou popořadě, v každé následující stupnici vždy přibývá jeden křížek. Zatím nebudeme řešit, u kterých konkrétních tónů má křížek být (to později), ale pouze jejich počet.

Podívej se na cvičení 1. První stupnice je E dur, má 4 křížky, v říkance je slovo Elektrické čtvrté v pořadí. Druhá stupnice je H dur, má 5 křížků, v říkance je slovo Hodiny na 5. místě.

3. Pokus se nedívat na říkanku, ani na cvičení 1. Zkus zpaměti doplnit, kolik má která stupnice křížků. Názvy stupnic jsou schválně rozházené.

D dur: E dur:
G dur: A dur: H dur:

4. V minulém pracovním listě jsme se učili, co udělá s délkou noty tečka. Pokus se v následujícím cvičení doplnit tečku tam, kde chybí. V každém taktu musí vycházet 4 doby.



5. Napiš název písničky. Za houslový klíč doplň správné označení taktu (na kolik dob počítáme). Pomůže ti, když si písničku zahraješ.